B5 Pudel Suse zerrt Frau Kruse an der Leine durch den Park. Vom Tor aus jagt Suse in Pfeilrichtung los, an der ersten Kreuzung nach rechts, an der zweiten nach links, an der dritten nach rechts, an der vierten nach links. Wie viele Parkbänke stehen an Suses Weg durch den Park?

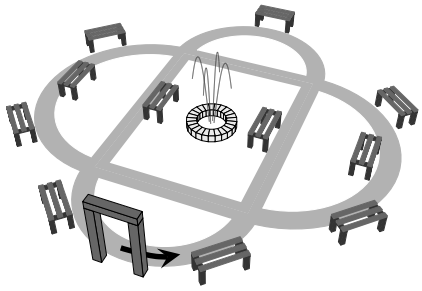

(**A**) 4 (**B**) 5 (**C**) 6 (**D**) 7 (**E**) 8

B6 Mit einer 10-Cent-Münze, zwei 2-Cent-Münzen und einer 1-Cent-Münze in der Hand gehe ich zur Post. Für 7 Cent kaufe ich Briefmarken. Welche Münzen könnte ich nun insgesamt in der Hand haben?

(**A**) eine 10-Cent-Münze
(**B**) zwei 2-Cent- und drei 1-Cent-Münzen
(**C**) zwei 5-Cent-Münzen
(**D**) sechs 1-Cent-Münzen
(**E**) drei 2-Cent- und zwei 1-Cent-Münzen

B7 Vom Gärtner hat mein Vater vier Primeln mitgebracht: eine gelbe, eine weiße, eine rote und eine blaue. Alle vier möchte ich nebeneinander in den Blumenkasten pflanzen. Die blaue und auch die rote Primel will ich direkt neben die gelbe pflanzen. Für die Reihenfolge der vier Primeln im Kasten gibt es mehrere Möglichkeiten. Wie viele?

(**A**) 4 (**B**) 5 (**C**) 6 (**D**) 7 (**E**) 8

B8 Beim Frühlingsfest sind heute 10 Kinder zum Sackhüpfen gestartet. Am Abend erzählt Mesut seiner Schwester, dass doppelt so viele Kinder vor ihm über die Ziellinie gehüpft sind wie hinter ihm ins Ziel kamen. Welchen Platz belegte Mesut?

(**A**) den 8. (**B**) den 7. (**C**) den 6. (**D**) den 5. (**E**) den 4.

5-Punkte-Aufgaben

C1 Tilda will einen Würfel aus Papier falten. Beim Aufzeichnen des Netzes hat sie sich geirrt und 7 Quadrate gezeichnet anstatt 6 (siehe Bild). Welches Quadrat ist überflüssig und kann weggeschnitten werden?

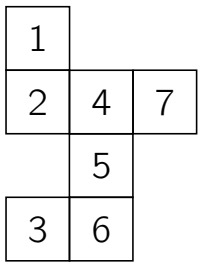

(**A**) 1 (**B**) 2 (**C**) 3 (**D**) 6 (**E**) 7

C2 Tante Luise hat 5 kleine Pfannkuchen gebraten und sie zum Servieren auf eine Platte gelegt. In welcher Reihenfolge hat sie die Pfannkuchen *ganz gewiss nicht* hingelegt?

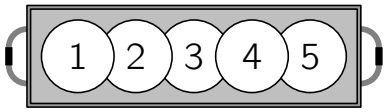

(**A**) 3, 2, 5, 4, 1 (**B**) 5, 3, 4, 2, 1 (**C**) 3, 2, 1, 5, 4 (**D**) 5, 3, 2, 4, 1 (**E**) 3, 5, 1, 2, 4