Keine Angst vor **Sachaufgaben !**

1

An einem Apfelbaum hängen 5 Äpfel. 5 Äpfel liegen am Boden.



Frage: Wie viele Äpfel trug der Baum insgesamt?

Rechnung:

Antwort: Der Baum trug insgesamt _____ Äpfel.

2



Zum Schulfest werden Luftballons aufgeblasen. Die Klasse von Herrn Schwarz schafft 6 Ballons, die von Herrn Klein 2 Ballons.

Frage: Wie viele Ballons sind das zusammen?

Rechnung:

Antwort: Zusammen sind es ___ Ballons.

3

In einem Wald wurden 6 Kiefern und 2 Linden neu gepflanzt.

Frage: Wie viele Bäume wurden insgesamt gepflanzt?

Rechnung:

Antwort: Insgesamt wurden ___ Bäume gepflanzt.



Keine Angst vor **Sachaufgaben !**

1

An einem Apfelbaum hängen 5 Äpfel. 5 Äpfel liegen am Boden.



Frage: Wie viele Äpfel trug der Baum insgesamt?

Rechnung:

5 + 5 = 10

Antwort: Der Baum trug insgesamt 10 Äpfel.

2



Zum Schulfest werden Luftballons aufgeblasen. Die Klasse von Herrn Schwarz schafft 6 Ballons, die von Herrn Klein 2 Ballons.

Frage: Wie viele Ballons sind das zusammen?

Rechnung:

6 + 2 = 8

Antwort: Zusammen sind es 8 Ballons.

3

In einem Wald wurden 6 Kiefern und 2 Linden neu gepflanzt.

Frage: Wie viele Bäume wurden insgesamt gepflanzt?

Rechnung:

6 + 2 = 8

Antwort: Insgesamt wurden 8 Bäume gepflanzt.